Leer el reloj: en punto y y media

La aguja corta marca la hora, la larga los minutos.

★ ★ ★ EXPLICACIÓN

1.º–2.º curso · REK-KL-L1

Nombre: _____ Curso: _____ Fecha: _____

1 Lo que vas a aprender

Vas a aprender a leer las horas en punto y las y media, y a dibujar tú las agujas.

LO QUE YA SABES

Sabes contar hasta 12 y reconoces los números de la esfera.

PALABRAS QUE NECESITAS

aguja corta · aguja larga · en punto · y media · digital

ASÍ SE HACE — PASO A PASO

1. **Busca primero la aguja corta.**
   La aguja corta y gruesa marca la hora.
2. **Mira después la aguja larga.**
   ¿Está en el 12? Entonces es una hora en punto.
3. **¿Está la aguja larga en el 6?**
   Entonces es y media. La aguja corta queda entre dos números.
4. **Dilo en voz alta.**
   Y media significa media hora después de la hora que ya pasó. Entre el 7 y el 8 con la larga en el 6 son las siete y media.



las 3 en punto

03:00



las 7 y media

07:30

RECUERDA

Aguja larga en el 12 = en punto.
Aguja larga en el 6 = y media de la hora que ya pasó.
7:30 son las siete y media.

CONSEJO DE QUESTIE

En y media mira la hora que ya has pasado. En neerlandés se hace al revés, así que ten cuidado si cambias de idioma.

Leer el reloj: en punto y y media

La aguja corta marca la hora, la larga los minutos.

★ ★ ★ JUNTOS

1.º–2.º curso · REK-KL-L1

Nombre: _____ Curso: _____ Fecha: _____

1 Lee el reloj

Escribe la hora en palabras debajo de cada reloj.

1. 

2. 

3. 

4. 

2 Dibuja las agujas

Dibuja la aguja de las horas corta y gruesa, la de los minutos larga.

1. 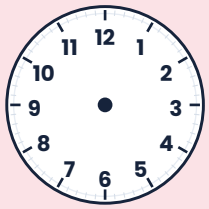
05:00

2. 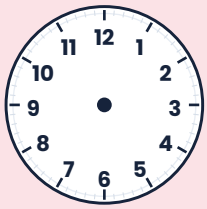
08:30

3. 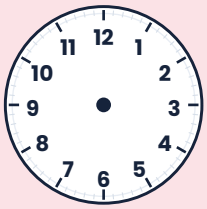
12:00

4. 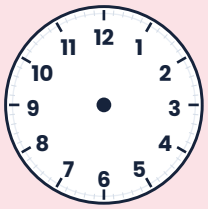
03:30

3 Busca la pareja

¿Qué hora digital corresponde a cada reloj? Escribe el número al lado.


A

08:00 ☐


B

11:00 ☐


C

12:30 ☐


D

05:30 ☐

CONSEJO DE QUESTIE

Dibuja siempre primero la aguja larga. Después sabrás más o menos dónde va la corta.

Leer el reloj: en punto y y media

La aguja corta marca la hora, la larga los minutos.

★ ★ ★ PRACTICA

1.º–2.º curso · REK-KL-L1

Nombre: _____ Curso: _____ Fecha: _____

1 A · ¿Qué hora es?

Escribe la hora en palabras.

1. 
2. 
3. 
4. 
5. 
6. 

7. 
8. 
9. 
10. 
11. 
12. 

2 B · Dibuja las agujas

Dibuja la aguja de las horas corta y gruesa, la de los minutos larga.

1. 
05:00

2. 
08:30

3. 
12:00

4. 
03:30

5. 
10:00

6. 
06:30

Leer el reloj: en punto y y media

La aguja corta marca la hora, la larga los minutos.

★ ★ ★ APLICA

1.º–2.º curso · REK-KL-L1

Nombre: _____ Curso: _____ Fecha: _____

1 Mi día

Lee el horario y responde a las preguntas.

1. El colegio empieza a las ocho y media. Dibuja esa hora en el reloj vacío y escríbela en digital.

   Operación: _____ Resultado: _____

2. El recreo es a las diez en punto. ¿Cómo se escribe en digital?

   Operación: _____ Resultado: _____

3. Vuelves a casa a las tres y media. ¿Cómo se escribe en digital?

   Operación: _____ Resultado: _____

4. Son las siete de la mañana. ¿Qué sueles hacer tú a esa hora?

   Operación: _____ Resultado: _____

2 B · Dibuja las agujas

Dibuja la aguja de las horas corta y gruesa, la de los minutos larga.

1. 

   05:00

2. 

   08:30

3. 

   12:00

4. 

   03:30

5. 

   10:00

6. 

   06:30

Leer el reloj: en punto y y media

La aguja corta marca la hora, la larga los minutos.

★ ★ ★ REPASO Y RETO

1.º–2.º curso · REK-KL-L1

Nombre: _____ Curso: _____ Fecha: _____

1 Compruébalo

Aciertos de 6: ____

1. 02:30 _____
2. 09:00 _____
3. 07:30 _____
4. 04:00 _____
5. 11:30 _____
6. 06:00 _____

RETO EXTRA

Caza de relojes

Busca cinco relojes en casa o en clase (también en aparatos). Apunta qué hora marca cada uno. ¿Van todos iguales?

2 Ya sé hacerlo

- Sé leer las horas en punto. ☺ 😐 ☹
- Sé leer las horas y media. ☺ 😐 ☹
- Sé dibujar las agujas. ☺ 😐 ☹

NOTA PARA EL PROFESOR

Deja que imiten las agujas con los brazos antes de dibujar. En clases plurilingües conviene avisar: el neerlandés 'half acht' son las 7:30, mientras que el español 'las ocho y media' son las 8:30.

Leer el reloj: en punto y y media

Para el profesor

★ ★ ★ SOLUCIONES

1.º–2.º curso · REK-KL-L1

A · ¿QUÉ HORA ES?

1. las 3 en punto (03:00)
2. las 7 y media (07:30)
3. las 9 en punto (09:00)
4. la 1 y media (01:30)
5. las 11 en punto (11:00)
6. las 5 y media (05:30)
7. las 8 en punto (08:00)
8. las 12 y media (12:30)
9. las 6 en punto (06:00)
10. las 10 y media (10:30)
11. las 2 en punto (02:00)
12. las 4 y media (04:30)

B · DIBUJA LAS AGUJAS

1. las 5 en punto	2. las 8 y media	3. las 12 en punto	4. las 3 y media
5. las 10 en punto	6. las 6 y media		

MI DÍA

1. 8:30	2. 10:00	3. 15:30 (3:30)	4. respuesta libre

COMPRUÉBALO

1. las 2 y media	2. las 9 en punto	3. las 7 y media	4. las 4 en punto
5. las 11 y media	6. las 6 en punto		