Klokkijken: hele en halve uren

De kleine wijzer wijst het uur, de grote wijzer de minuten.

★ ★ ★ UITLEG

groep 3–4 · REK-KL-L1

Naam: _____ Groep: _____ Datum: _____

1 Dit leer je

Je leert hele uren en halve uren aflezen op de klok, en je leert de wijzers zelf tekenen.

DIT WEET JE AL

Je kunt tellen tot 12 en je herkent de cijfers op de wijzerplaat.

WOORDEN DIE JE NODIG HEBT

kleine wijzer · grote wijzer · uur · half · digitaal

ZO DOE JE DAT — STAP VOOR STAP

1. **Zoek eerst de kleine wijzer.**
   De kleine wijzer is de dikke korte. Die wijst het uur aan.
2. **Kijk dan naar de grote wijzer.**
   Staat de grote wijzer op de 12? Dan is het een heel uur.
3. **Staat de grote wijzer op de 6?**
   Dan is het half. De kleine wijzer staat dan tussen twee cijfers in.
4. **Zeg het hardop.**
   Half betekent: op weg naar het volgende uur. Tussen 7 en 8 met de grote wijzer op 6 is half 8.



3 uur

03:00



half 8

07:30

ONTHOUD

Grote wijzer op 12 = heel uur.
Grote wijzer op 6 = half, en dan noem je het volgende uur.
7:30 lees je als half 8.

QUESTIE TIPT

Bij half kijk je naar het uur dat er nog aankomt, niet naar het uur dat voorbij is. Dat is de fout die het vaakst gemaakt wordt.

Klokkijken: hele en halve uren

De kleine wijzer wijst het uur, de grote wijzer de minuten.

★ ★ ★ SAMEN DOEN

groep 3–4 · REK-KL-L1

Naam: _____ Groep: _____ Datum: _____

1 Lees de klok af

Schrijf de tijd in woorden onder de klok.

1. 
_____

2. 
_____

3. 
_____

4. 
_____

2 Teken de wijzers

Teken de kleine wijzer kort en dik, de grote wijzer lang.

1. 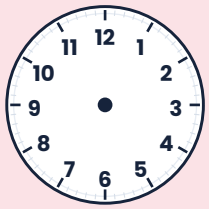
05:00

2. 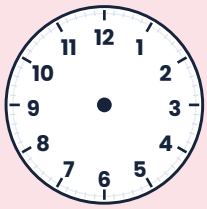
08:30

3. 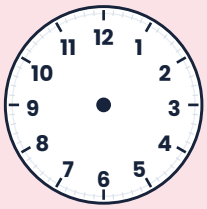
12:00

4. 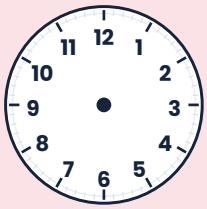
03:30

3 Zoek het paar

Welke digitale tijd hoort bij welke klok? Schrijf het nummer erbij.


A


B

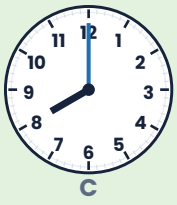
C

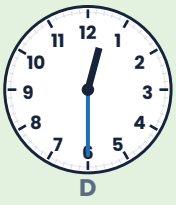
D

08:00		**11:00**		**12:30**		**05:30**	

QUESTIE TIPT

Teken de grote wijzer altijd eerst. Daarna weet je waar de kleine wijzer ongeveer moet staan.

Klokkijken: hele en halve uren

De kleine wijzer wijst het uur, de grote wijzer de minuten.

★ ★ ★ VERWERKING

groep 3–4 · REK-KL-L1

Naam: _____ Groep: _____ Datum: _____

1 A · Hoe laat is het?

Schrijf de tijd in woorden.

1. 
2. 
3. 
4. 
5. 
6. 

7. 
8. 
9. 
10. 
11. 
12. 

2 B · Teken de wijzers

Teken de kleine wijzer kort en dik, de grote wijzer lang.

1. 
05:00

2. 
08:30

3. 
12:00

4. 
03:30

5. 
10:00

6. 
06:30

Klokkijken: hele en halve uren

De kleine wijzer wijst het uur, de grote wijzer de minuten.

★ ★ ★ TOEPASSEN

groep 3–4 · REK-KL-L1

Naam: _____ Groep: _____ Datum: _____

1 Mijn dag

Lees het dagrooster en beantwoord de vragen.

1. De school begint om half 9. Teken die tijd op de lege klok hiernaast en schrijf hem ook digitaal op.

   Som: _____ Antwoord: _____

2. De pauze is om 10 uur. Hoe laat is dat digitaal?

   Som: _____ Antwoord: _____

3. Je gaat om half 4 naar huis. Hoe laat is dat digitaal?

   Som: _____ Antwoord: _____

4. Het is 7 uur in de ochtend. Wat doe jij dan meestal?

   Som: _____ Antwoord: _____

2 B · Teken de wijzers

Teken de kleine wijzer kort en dik, de grote wijzer lang.

1. 

   05:00

2. 

   08:30

3. 

   12:00

4. 

   03:30

5. 

   10:00

6. 

   06:30

Klokkijken: hele en halve uren

De kleine wijzer wijst het uur, de grote wijzer de minuten.

★ ★ ★
CHECK & PLUS

groep 3–4 · REK-KL-L1

Naam: _____ Groep: _____ Datum: _____

1 Check jezelf

Goed van 6: ____

1. 02:30 _____
2. 09:00 _____
3. 07:30 _____
4. 04:00 _____
5. 11:30 _____
6. 06:00 _____

PLUSOPDRACHT

Klokkenronde

Zoek in huis of in de klas vijf klokken (ook op apparaten). Schrijf op hoe laat elke klok aanwijst. Lopen ze allemaal gelijk?

2 Ik kan dit

- Ik kan hele uren aflezen. ☺ 😐 ☹
- Ik kan halve uren aflezen. ☺ 😐 ☹
- Ik kan de wijzers zelf tekenen. ☺ 😐 ☹

NOTITIE DOCENT

Laat leerlingen de wijzers eerst met hun armen nadoen voordat ze tekenen. 'Half' is in het Nederlands lastig omdat je vooruit kijkt (half 8 = 7:30); benoem dat verschil expliciet, zeker bij meertalige leerlingen, want in het Engels en Spaans kijk je juist terug (half past seven).

Klokkijken: hele en halve uren

Voor de docent

★ ★ ★ ANTWOORDEN

groep 3–4 · REK-KL-L1

A · HOE LAAT IS HET?

1. 3 uur (03:00)	2. half 8 (07:30)	3. 9 uur (09:00)	4. half 2 (01:30)
5. 11 uur (11:00)	6. half 6 (05:30)	7. 8 uur (08:00)	8. half 1 (12:30)
9. 6 uur (06:00)	10. half 11 (10:30)	11. 2 uur (02:00)	12. half 5 (04:30)

B · TEKEN DE WIJZERS

1. 5 uur	2. half 9	3. 12 uur	4. half 4
5. 10 uur	6. half 7		

MIJN DAG

1. 8:30	2. 10:00	3. 15:30 (3:30)	4. eigen antwoord

CHECK JEZELF

1. half 3	2. 9 uur	3. half 8	4. 4 uur
5. half 12	6. 6 uur		